[鲁教版数学下册期末系列试卷]

查看试卷和答案，及更多内容：

扫码关注智慧山育儿，回复**“期末综合试卷”、“期末答案”**、“单元测试”、“单元测试答案”作文、复习、试卷、知识点、拼音、字母、钟表、看图写话、故事、双语故事、成语、书单、常识、APP、百家姓、三字经、唐诗三百首、自助查询、超级口算、字帖、**的组词、**的近/反义词”

以上资源，均可免费使用。

智慧山，陪孩子一起成长

长按识别二维码，关注智慧山育儿

鲁教版四年级数学下册期末综合试卷

（满分：100 分 时间：90 分钟）

题号	一	二	三	四	五	六	七	八	总分
分数									

一、我会填。（每空 1 分，共 22 分）

1、630 米=（ ）千米　　3.2 平方米=（ ）平方分米

3.05 吨=（ ）千克　　5 千米 60 米=（ ）千米

2、小明体重是 29.97 千克，划线部分的数读作（ ）千克；某公园的占地面积是七百五十点零八平方米，划线部分的数写作（ ）平方米。

3、把 959700000 米改写成用“亿米”作单位的数是（ ）亿米，精确到百分位约是（ ）亿米。

4、在一个三角形中，如果两个角的和是 48°，则另一个角是（ ），这是一个（ ）三角形。

5、下面是四位同学的体重：

小军 43.6 千克　　小芳 38 千克 500 克　　小红 37.8 千克　　小强 43.9 千克

最重的是（ ）　　最轻的是（ ）

6、0.85 的计数单位是（ ），它有（ ）个这样的计数单位。

7、2.507 的小数点先向右移动三位，再向左移动两位后是（ ），也就是（ ）到原数的（ ）倍。

8、一个等腰三角形的一个底角是 50°，另外两个角分别是（ ）和（ ）。

9、由 3、5、0 和小数点组成的最小两位小数是（ ），最大两位小数是（ ）。

二、我会判断。（对的打“√”，错的打“×”，每题 1 分，共 4 分）

（ ）1、199×48 + 48 = 200×48。

（ ）2、1 根 8 厘米、2 根 4 厘米的小棒可以围成一个三角形。

（ ）3、四位小数一定比三位小数大。

（　　）4、比 0.6 大而又比 0.8 小的小数只有 1 个。

三、**我会选择。**（把正确答案的序号写在括号里。每题 1 分，共 4 分。）

1、不改变原数的大小，下列数中，所有“0”都能去掉的是（　　）。

A、50.060　　B、35.00　　C、6000

2、与 5.50 相差最大的数是（　　）。

A、5.51　　B、5.499　　C、5.48

3、要使 29□5637≈29 万，□里有（　　）种填法。

A、4　　B、5　　C、6

4、两个小三角形拼成一个大三角形，这个大三角形的内角和是（　　）。

A、90°　　B、180°　　C、360°

四、**我会算。**（共 28 分）

1、直接写出得数。（10 分）

2-0.01=	0÷820=	6-1.3=	3÷100=	0.5×10=
0.8+0.2=	3.4+7.6=	2.53-0.53=	101×45=	360÷60=

2、计算并验算。（6 分）

7.2+2.84=　　5.2-3.91=

3、计算下面各题，怎样简便就怎样算。（12 分）

385×99　　6.3+0.84+3.7+8.16　　312×4+188×4

2000-178-322　　85÷(75-70) ×4　　125×72

五、**操作题。**（共 18 分）

1、画出下面三角形所给出的底上的高。

（2 分）

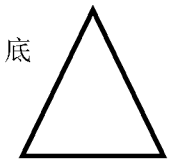

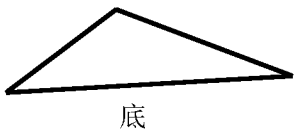

2、填一填，画一画。（共 10 分）

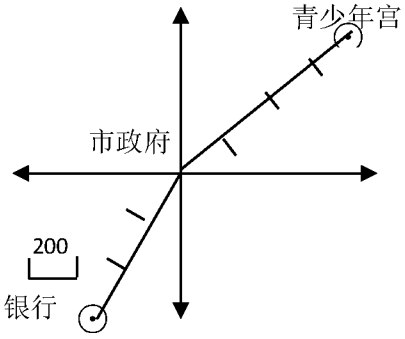

以市政府为观测点，

（1）银行在（　　）偏（　　）（　　）的方向上，距离是（　　）米。

（2）青少年宫在（　　）偏（　　）（　　）的方向上，距离是（　　）米。

（3）博物馆在市政府的东偏南 30° 的方向 400 米处。请你在平面图上标出博物馆的位置。

3、实践操作。（共 6 分）

胜利小学今年对 1 至 6 年级视力低于 1.0 的学生统计如下：

年级	一年级	二年级	三年级	四年级	五年级	六年级
近视人数	20	23	25	30	24	42

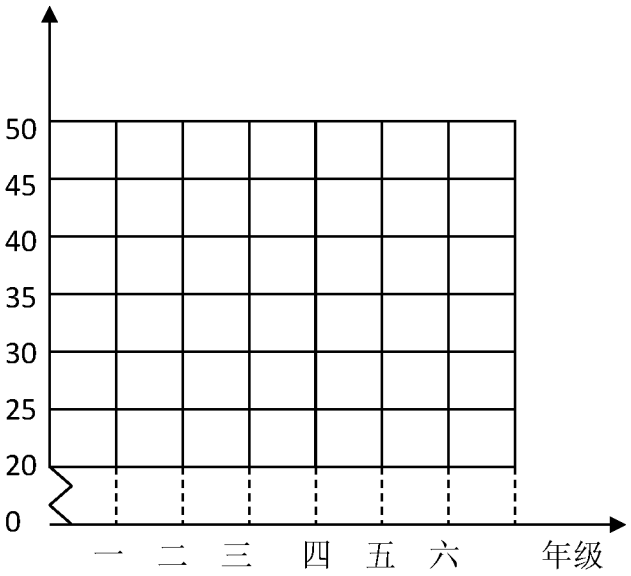

1、请你根据以上数据，制成折线统计图。

2、六个年级共有（　　）人近视。

3、根据以上信息，你想提什么数学问题？

_____

4、对于近视的同学，你有什么建议？

_____

胜利小学一至六年级视力低于 1.0 的学生人数统计图。

六、走进生活，解决问题。（每题 4 分，共 24 分）

1、修路队修一条公路，第一天修了 3.4 千米，比第二天多修了 0.6 千米，两天共修了多少千米？

2、学校食堂买进大小两种包装的大米各 5 袋，小袋每袋重 85 千克，大袋每袋重 115 千克，共买大米多少千克？

3、印刷厂 20 天印书 4800 万册。照这样计算，35 天可以印书多少万册？

4、亮亮看一本 280 页的故事书，用了一个星期的时间看完，前 3 天每天看 40 页，后 4 天平均每天看了多少页？

5、某工厂积极开展植树活动。第一车间共植树 315 棵；第二车间 42 人，平均每人植树 8 棵。第一车间比第二车间少植树多少棵？

6、老师买 5 个足球用了 325 元，8 个篮球用了 640 元。每个篮球比足球贵多少元？